Die männlichen Geschlechtsorgane

1. Beschrifte die einzelnen Punkte

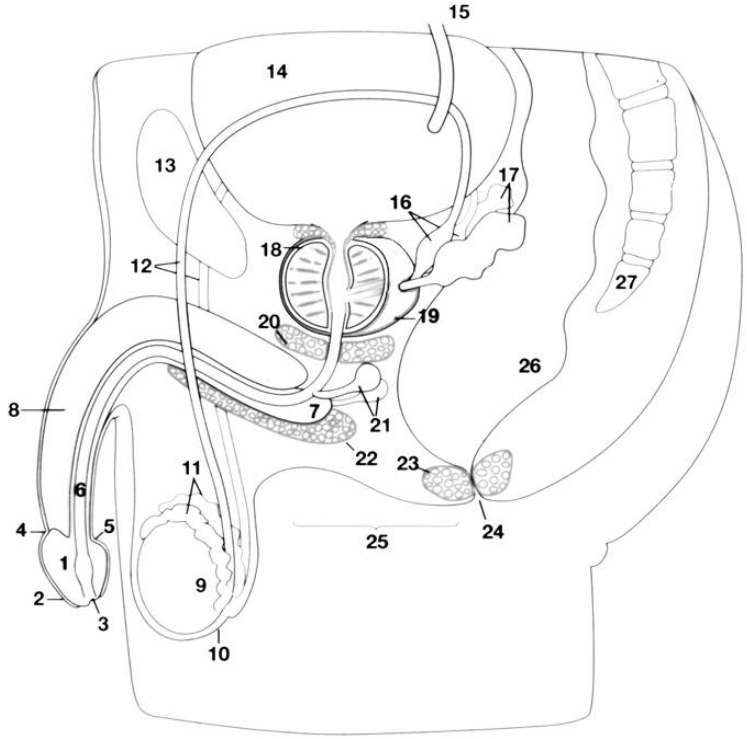

1 _____

2 _____

3 _____

4 _____

5 _____

6 _____

7 _____

8 _____

9 _____

10 _____

11 _____

12 _____

13 _____

14 _____

15 _____

16 _____

17 _____

18 _____

19 _____

20 _____

21 _____

22 _____

23 _____

24 _____

25 _____

26 _____

27 _____

Stichpunkte sind:

Eichel – Kranzfurche – Vorhaut – unterer Muskelring – Steißbein – Sitz des Vorhautbändchens – Samenleiter – Ampulla – Enddarm – Harnröhre – Cowpersche Drüsen – Damm – unterer Schwellkörper – Harnblase – Prostata (Vorsteherdrüse) – After – einer der beiden oberen Schwellkörper – Afterschließmuskel – Teil der Muskulatur des Beckenbodens – Hoden – Nebenhoden – oberer Muskelring – Bläschendrüse – einer der beiden Harnleiter – Hodensack – Schambein – Öffnung der Harnröhre

2. Male die einzelnen Punkte mit folgenden Farben aus

Rot: Schwellkörper des Penis
Blau: Hoden, Nebenhoden und Samenleiter
Gelb: Harnröhre und Blase, Bläschendrüsen
Grün: Prostata und Cowpersche Drüsen
Braun: Muskulatur
(Grau: Knochen)

3. Beschreibe die Funktionen von:

- Eichel – Kranzfurche
- Vorhaut
- Vorhautbändchen
- Harnröhre
- Penis
- Schwellkörper
- Hoden
- Nebenhoden
- Hodensack
- Samenleiter
- Bläschendrüse
- Prostata (Vorsteherdrüsen)
- Weiteres (z.B. Ampulla, Cowpersche Drüsen)

Hier findest du Informationen:

Internet:

- www.loveline.de unter: Lexikon
- www.loveline.de unter: Themen - Jungen → Mein Körper

Broschüren:

- Wie geht`s – wie steht`s?
- sex´n`tipps: Jungenfragen
- sex´n`tipps: Körper und Gesundheit

Lösung zu Aufgabe 1 und 2

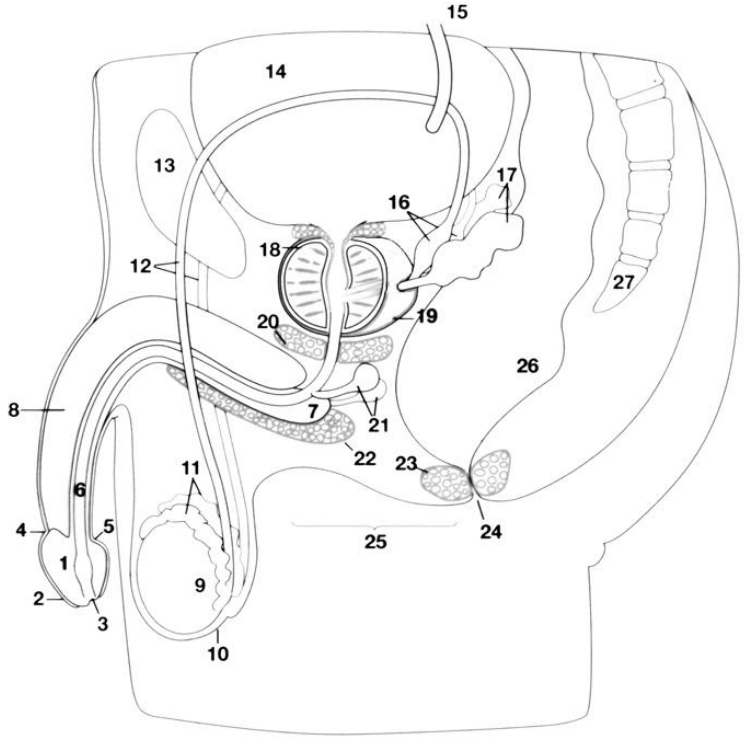

1 Eichel

2 Vorhaut

3 Öffnung der Harnröhre

4 Kranzfurche

5 Sitz des Vorhautbändchens

6 Harnröhre

7 unterer Schwellkörper

8 einer der beiden oberen Schwellkörper
(der zweite liegt verdeckt dahinter)

9 Hoden

10 Hodensack

11 Nebenhoden

12 Samenleiter

Die männlichen Geschlechtsorgane

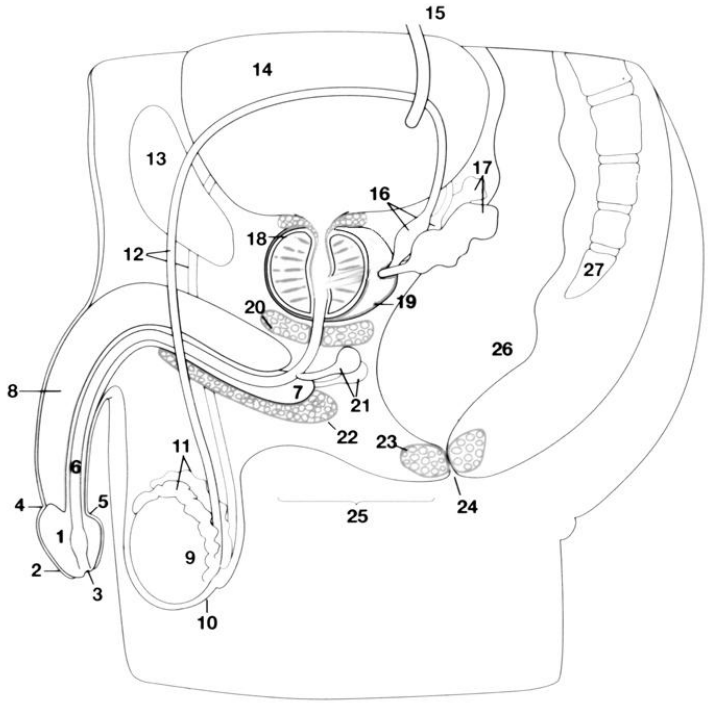

13 Schambein (Teil des Beckens) _____

14 Harnblase _____

15 einer der beiden Harnleiter (kommt von der Niere) _____

16 Ampulla _____

17 Bläschendrüse _____

18 oberer Muskelring _____

19 Prostata (Vorsteherdrüse) _____

20 unterer Muskelring _____

21 Cowpersche Drüsen _____

22 Teil der Muskulatur des Beckenbodens _____

23 Afterschließmuskel _____

24 After _____

25 Damm _____

26 Enddarm _____

27 Steißbein _____